Quiz wiedzy bezpiecznego przedszkolaka

1. **Kiedy idziemy na wycieczkę do lasu, musimy:**
   a) **założyć krótki spodenki i sandały**
   b) **wybrać dresy i buty zakrywające kostkę**
   c) **spryskać ubranie perfumami**
2. **Idąc na górską wędrówkę, musimy:**
   a) **zachowywać się cicho**
   b) **biec po ścieżkach górskich**
   c) **dokarmiać zwierzęta**
3. **Kiedy wyruszamy na wycieczkę po mieście, musimy koniecznie:**
   a) **wysłać pocztówkę**
   b) **trzymać się blisko grupy**
   c) **założyć kalosze**
4. **Kiedy wyruszamy w podróż samochodem, musimy pamiętać aby:**
   a) **zabrać ze sobą ulubioną zabawkę**
   b) **wymyć auto**
   c) **usiąść w foteliku i zapiąć pasy bezpieczeństwa**
5. **Podczas upalnych dni musimy pamiętać o:**
   a) **smarowaniu odkrytych miejsc kremem z filtrem**
   b) **kupieniu lodów**
   c) **założeniu czapki na głowę**
6. **Podczas pobytu nad morzem musimy pamiętać, aby:**
   a) **założyć czerwone kąpielówki**
   b) **nie wchodzić samemu do wody**
   c) **zbudować zamek z piasku**
7. **Wybierając się na rower, musimy pamiętać aby:**
   a) **zabrać ze sobą portfel**
   b) **założyć na głowę kask**
   c) **założyć ochraniacze na łokcie i kolana**
8. **W lesie zawsze można:**
   a) **usiąść przy ognisku z rodziną**
   b) **obserwować przyrodę**
   c) **zostawić papierki pod drzewem, jeśli nie ma kosza na śmieci**
9. **Latem koniecznie pamiętamy o tym, aby:**
   a) **chronić głowę przed słońcem**
   b) **zjadać lody przynajmniej 4 razy dziennie**
   c) **pić dużo wody**

Dodawanie w zakresie 0 - 10.

1. Uzupełnij działania według podanego schematu.

2+3=5

6+1=

4+3=

5+4=

1+7=

2+8=

8+0=



2. Uzupełnij grafy.

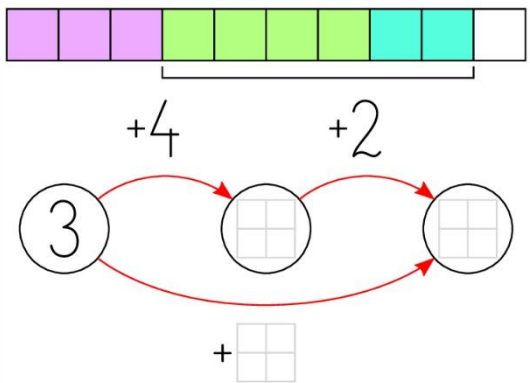

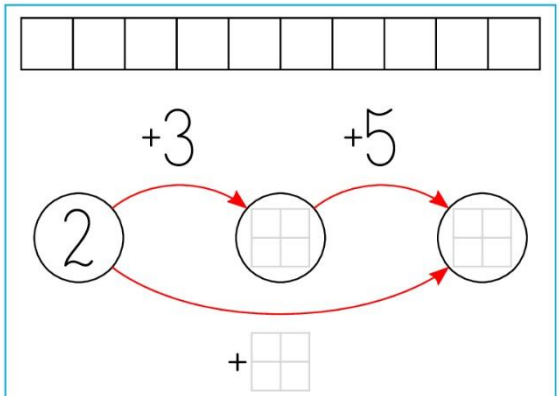

© Wszelkie prawa zastrzeżone
All rights reserved

Odejmowanie w zakresie 0 - 10.

1. Uzupełnij działania według podanego schematu.

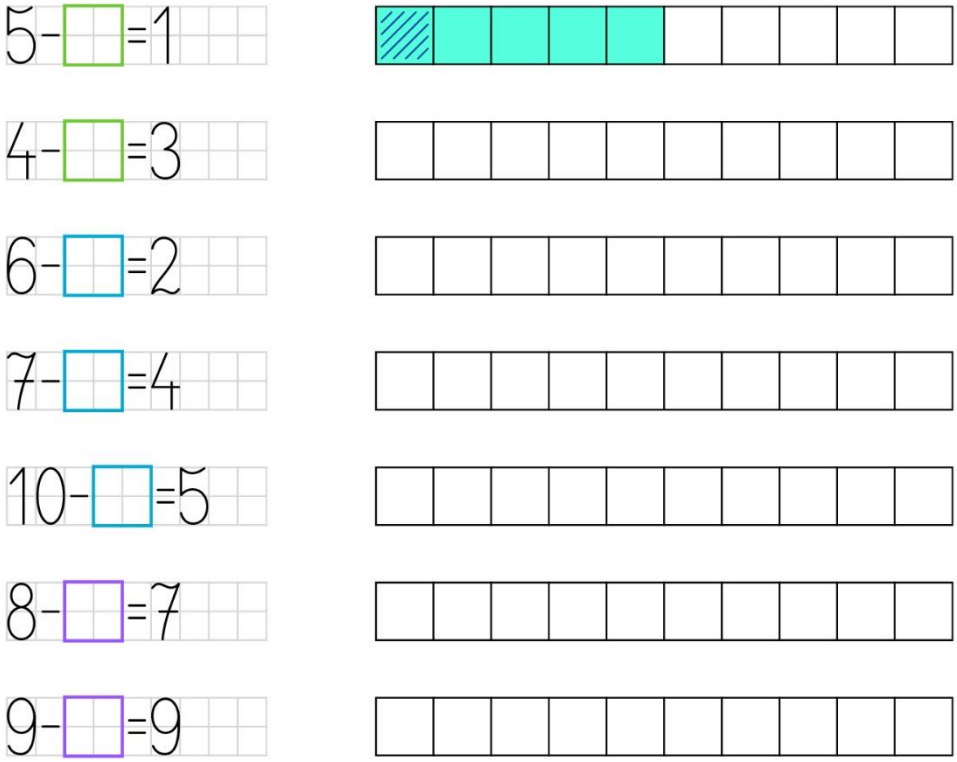

2. Uzupełnij grafy.

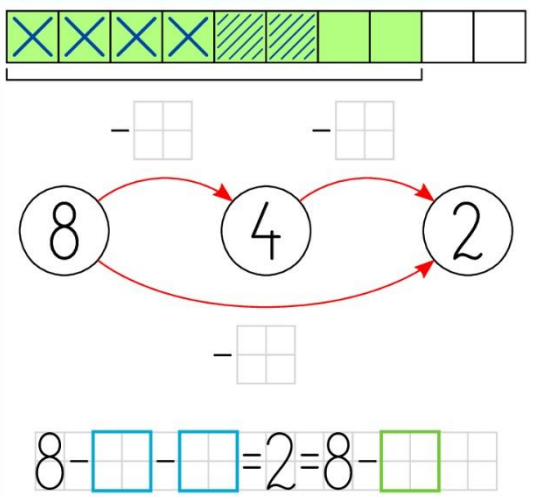

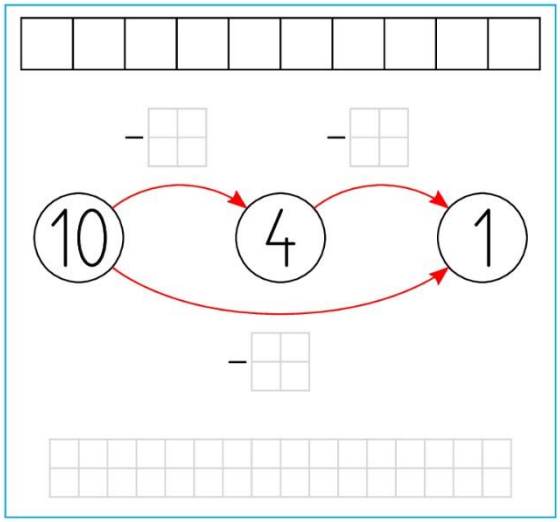

© Wszelkie prawa zastrzeżone
All rights reserved

Praca plastyczna: ŻAGLÓWKI